Nom Prénom : .....

Interrogation n°1 (Sujet A)

Exercice 1

On considère la figure ci-dessous.
Les droites (CB) et (NM) sont parallèles.

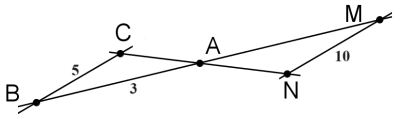

Calculer la longueur AM.

Exercice 2

On considère la figure ci-dessous.

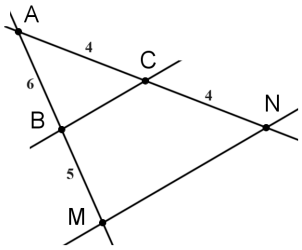

Les droites (BC) et (MN) sont-elles parallèles ?

Nom Prénom : .....

Interrogation n°1 (Sujet B)

Exercice 1

On considère la figure ci-dessous.
Les droites (CB) et (NM) sont parallèles.

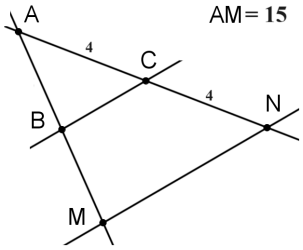

Calculer la longueur AB.

Exercice 2

On considère la figure ci-dessous.

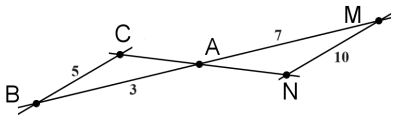

Les droites (BC) et (MN) sont-elles parallèles ?